Cahier-enquête de l'exposition
« Petit tour au Moyen Age »

proposé par le Conseil général des Yvelines

réalisé par le
Service archéologique départemental des Yvelines
Le Pas du Lac – 2, avenue de Lunca
78180 Montigny-le-Bretonneux
Tél. : 01 61 37 36 89

Yvelines 78 CONSEIL GENERAL

Conception : Gaëlle Cavalli, Laetitia Garzuel, Cécile Garguelle (AOA), Sandrine Lefèvre
Crédits photographiques : Pascal Laforest, Daniel Balloud
Maquette : Pascal Laforest
Illustrations : Nicolas Weis
Carte : Yvan Barat
Année 2005

Petit tour au Moyen Age

1000 ans d'archéologie et d'histoire

Cahier-enquête
collège

CORRIGÉ

Carte des zones d'influence des principales familles seigneuriales avec la localisation des châteaux et des voies médiévales attestés.

Un château à motte aux XIe-XIIe siècles (maquette au 1/70e).

Un guide pour faire un petit tour...

Le Service archéologique te propose de mener une enquête sur le Moyen Age en parcourant cette exposition.
Ce cahier te permettra de recueillir tous les indices nécessaires et, ensuite, il deviendra un véritable petit livre sur le Moyen Age que tu pourras conserver.
Nous espérons que tu auras autant de plaisir que nous à découvrir la vie quotidienne de nos ancêtres au Moyen Age.

Bonne visite !

L'équipe du
Service archéologique
départemental des Yvelines

UTILISATION

- Les questions précédées de ce signe sont à faire dans l'exposition.
- Les autres peuvent être faites plus tard, en classe.

Repères chronologiques

Ve siècle	Invasions barbares
V^e-IXe siècles	**Le Haut Moyen Age**
V^e-VIIe siècles	L'époque mérovingienne
486	Clovis fonde la dynastie mérovingienne et adopte la religion chrétienne
VIIIe-Xe siècles	L'époque carolingienne
751	Début de la dynastie carolingienne avec le couronnement de Pépin-le-Bref
800	Charlemagne est sacré empereur d'Occident par le pape
IXe-Xe siècles	Invasions par les Vikings, les Sarrasins et les Hongrois
Fin du IXe siècle	Mise en place du système féodal
Xe-XIIIe siècles	**Le Moyen Age classique**
987	Début de la dynastie capétienne avec le couronnement d'Hugues Capet
XIe-XIIIe siècles	Croisades
XIIe siècle	Accroissement des possessions anglaises sur le territoire français
1180-1223	Règne de Philippe-Auguste } du pouvoir royal
1226-1270	Règne de saint Louis } du pouvoir royal
XIVe- XVe siècles	**Le Bas Moyen Age**
1337-1453	Guerre de Cent ans
1348	Peste noire
Fin du XVe siècle	Extension du royaume de France : Bourgogne, Picardie, Bretagne
1492	Découverte de l'Amérique par Christophe Colomb et expulsion des Arabes hors d'Espagne

Indique l'époque de chaque marionnette ci-contre.

Quel personnage est manquant ?

Il manque Isolde, la femme du marchand du XVe siècle.

A quelle période vit ce guerrier ?

Il vit à l'époque mérovingienne (V^e - VIIe siècles).

Jehan, paysan du XIIe siècle.

Robin, paysan du XVe siècle.

Mathilde, dame du XIIe siècle.

Robert, seigneur du XVe siècle.

Guillaume, marchand du XVe siècle.

Frère Benoît, moine bénédictin (à partir du XIIIe siècle).

Thibault, seigneur du XIIe siècle.

Marion, paysanne du XVe siècle.

Margot, paysanne du XIIe siècle.

Isabeau, dame du XVe siècle.

Repère la commune où tu habites sur cette carte des sites du Moyen Age connus aujourd'hui.

A quoi servent ces sciences utilisées en archéologie ?

Carpologie : étude des noyaux et des graines brûlées.

Anthracologie : étude des charbons de bois.

Iconographie : étude des documents graphiques.

Anthropologie : étude des ossements humains.

Paléographie : étude des documents écrits anciens.

Céramologie : étude des poteries anciennes.

Chevaliers et châteaux

Complète cette histoire

« Bonjour, je m'appelle Robert (trouve le prénom d'un seigneur du Moyen Age). J'ai 14 ans et je m'entraîne pour devenir chevalier. Aujourd'hui je vais m'entraîner à tirer à l'arbalète (trouve le nom d'une arme médiévale) puis cet après-midi je vais apprendre à jouer de la harpe (trouve le nom d'un instrument de musique médiéval). Mon père m'a promis de m'offrir une cotte de mailles (trouve le nom d'une partie de l'équipement du chevalier) pour mon prochain anniversaire. J'ai hâte de pouvoir participer à des tournois (trouve le nom d'un loisir seigneurial) comme mon grand frère ».

Panneau « Exercer le pouvoir ». Que possède le seigneur que les paysans sont obligés d'utiliser ?

1. Le pressoir.
2. Le four.
3. Le moulin.

Qu'est-ce que le droit de ban ?

Le pouvoir de contraindre, de punir et de percevoir la redevance.

A quoi servent les bornes ?

A séparer les territoires des différents seigneurs.

Panneau « Se protéger ». Quand apparaissent les premières fortifications ?

Autour de l'An Mil avec la motte féodale (butte de terre entourée d'un ou de plusieurs fossés).

Qui fait construire les véritables châteaux forts et pourquoi ?

Les familles riches, pour protéger leurs biens et impressionner les autres seigneurs.

Quel est ce château ?

Le château de Beynes.

A-t-il encore un donjon aujourd'hui ?

Non, il a été rasé vers le milieu du XVe siècle.

Paraître

Observe les marionnettes. Quelle est la couleur des vêtements des paysans ? Pourquoi y a-t-il une différence avec celle des nobles ?

Surtout brune, beige. A la fin du Moyen Age le bleu et le noir apparaîssent.

Les couleurs sont moins vives que celles des vêtements des nobles, car les teintures sont chères.

Barre le nom des matières qui n'existent pas au Moyen Age.

lin	~~stretch~~
laine	~~jean~~
soie	coton
~~lycra~~	

Décris l'équipement du seigneur visible sur ce sceau.

Ce cavalier partant au combat porte un heaume, une longue cotte de mailles et comme armement une épée et un grand bouclier.

S'exprimer, apprendre

De quelle langue le français est-il l'évolution ?

Du latin.

Qui sait lire et écrire au Moyen Age ?

Principalement les ecclésiastiques et les nobles (vers la fin du Moyen Age, certains artisans et commerçants).

A quoi servent les lissoirs en verre ?

A aplanir les fibres du parchemin pour faciliter l'écriture.

Sur quoi écrit-on au Moyen Age ?

- ☐ des tablettes de cire
- ☒ du parchemin
- ☐ des papyrus
- ☐ du papier

Manger

Observe la table de banquet. Il y a un élément qui permet de conserver les aliments. Lequel ?

Le sel.

Regarde le pupitre. Avec quels indices les archéologues ont pu réaliser une restitution de table et de cuisine médiévales ?

A partir des charbons de bois, des graines brûlées, des noyaux de fruits, des os d'animaux et de coquilles d'oeufs, des fragments d'objets en verre, en terre cuite... ainsi que des documents d'archives (textes ou iconographie).

Regarde la légende de la table de la cuisine. Pourquoi les hommes du Moyen Age mangent-ils beaucoup de poisson ?

A cause des prescriptions religieuses. On doit manger "maigre" les mercredis, vendredis, samedis et veilles de fêtes et durant les 40 jours de carême. La viande est remplacée par le poisson.

Parmi ces aliments ou boissons, quels sont ceux qui sont inconnus au Moyen Age ? Entoure-les.

sucre de betterave	sel
poivre	café
bière	chocolat
vin	

L'univers des campagnes

Panneau « Cultiver, élever ». Quelles sont les principales cultures au Moyen Age ?

Les céréales (avoine, lin, chanvre et blé), mais aussi les légumes et fruits des potagers et des vergers.
Le vignoble est très étendu et apprécié dans la région au Moyen Age classique.

Qu'est-ce que l'assolement triennal ?

C'est le principe de rotation des cultures sur trois ans dans une exploitation.

Repère la tour où est représentée une forêt.
Décris les activités qui s'y déroulent.

Réalisation du charbon de bois et réduction du fer.

La chasse.

La cueillette des fruits, des champignons, des herbes médicinales.

Nourriture des animaux.

Panneau « Créer des villages ». Que signifie le mot « essart » ?

D'origine latine (essartare), ce mot signifie "défricher".

A quel moment apparaît la notion de village ?

Le regroupement de la population autour d'une église et de la demeure seigneuriale apparaît autour de l'An Mil.

Quels sont les trois éléments qui le caractérisent ?

1. Un habitat groupé.
2. Une église.
3. Un cimetière.

Bâtir, aménager son intérieur

Regarde la maquette. En quels matériaux sont faits les murs et les toits des maisons à l'époque carolingienne ?

Les murs sont en torchis (mélange de terre, de sable, de paille) et le toit en bois recouvert de chaume ou de tuiles.

Quelles traces un archéologue peut-il en retrouver ?

Seules les tuiles en terre cuite ou en ardoise se seront conservées. Mais en observant les nuances de couleur et de texture de la terre, les archéologues pourront identifier la présence d'une construction en bois.

Décris cette maison de ville de la fin du Moyen Age.

Cette maison a un étage avec des combles. Le rez-de-chaussée est en retrait et construit en pierre. L'étage, en encorbellement, est constitué de murs en pans de bois comblés de torchis. La toiture est en ardoise avec une petite lucarne.

Vivre en ville

Quelle catégorie sociale apparaît à partir du XIe siècle ?

La bourgeoisie.

Regarde les monnaies médiévales sur la tour.
Trouve les intruses dans celles qui suivent.

l'écu	~~l'euro~~	le denier
la livre	~~le sesterce~~	le franc

Complète la légende de ce plan d'Houdan.

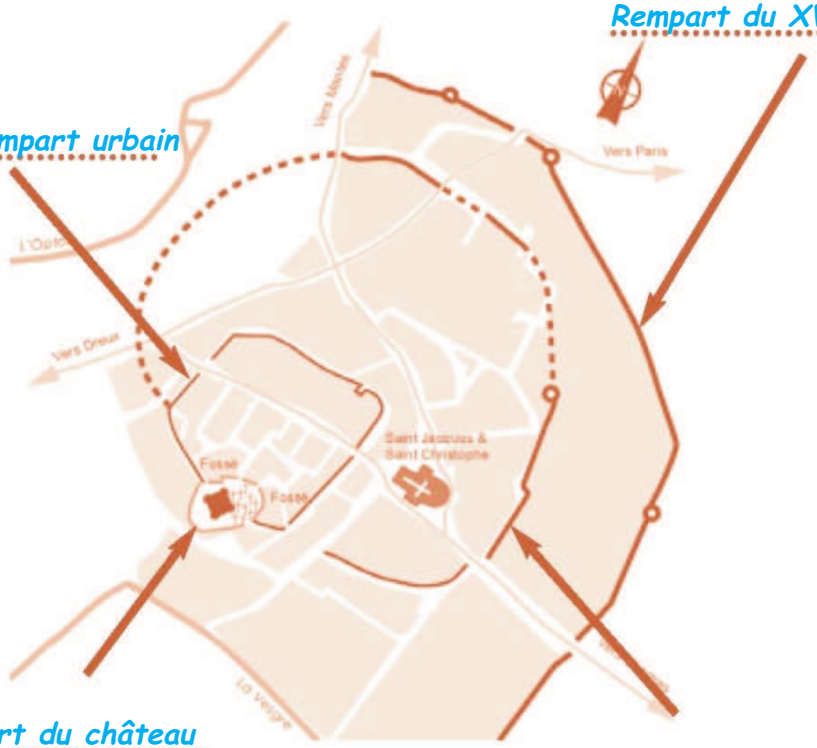

Rempart du XVIe siècle

Premier rempart urbain

Rempart du château

Second rempart urbain

Qu'est-ce qu'une « commune » au Moyen Age ?

Une ville qui possède ses propres institutions et assure seule son administration.

Croire

Quels genres de scènes sont représentés sur les vitraux ?

Des scènes religieuses et profanes (métiers par exemple).

Cite un moine vêtu de blanc : un cistercien

Un moine vêtu de noir : un bénédictin

Un moine vivant en ville : un franciscain

Quelles religions sont pratiquées dans les Yvelines au Moyen Age ?

La religion catholique, majoritaire, et la religion juive.

Comment s'appelle ce monument ?

L'église abbatiale Notre-Dame de la Roche à Levis-Saint-Nom.

Qu'est-ce qu'une abbaye ?

C'est un ensemble de bâtiments (notamment une église) habité par une communauté religieuse et dirigé par un abbé.

Voici le schéma d'un portail d'église.
Complète les légendes manquantes.

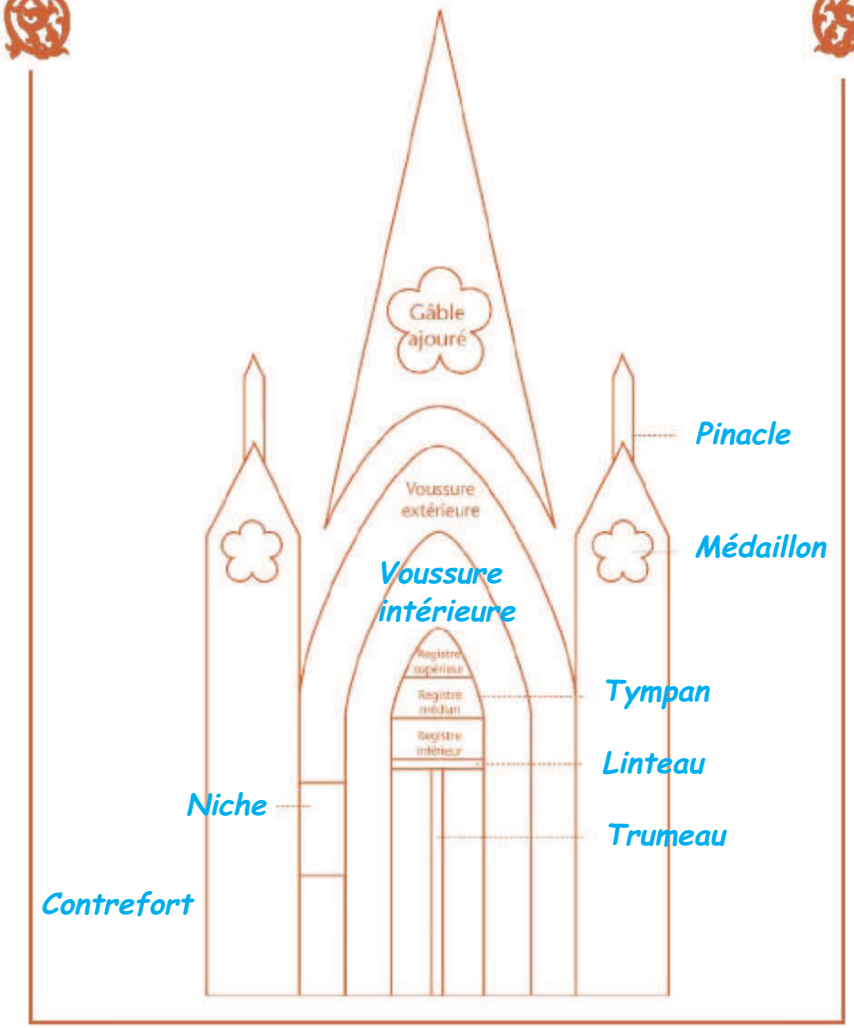

Quelles sont les parties les plus souvent décorées ?

Le tympan et les voussures, ainsi que le linteau et le trumeau, très visibles dès l'entrée.

A ton avis, que représente cette scène issue du tympan (registre du bas) ?

La naissance de Jésus (la Nativité).

De nombreuses fêtes médiévales existent encore aujourd'hui. Souligne-les.

Pâques
Premier mai
Saint-Jean
Toussaint
Epiphanie
Carnaval
Ascension
Pentecôte
Saint-Michel
Fête des fous
Chandeleur

Vie, santé et mort

Les hommes du Moyen Age connaissent les vaccins :

vrai **faux**

Des maladies comme la rougeole peuvent être mortelles :

vrai faux

Pour se soigner, les hommes du Moyen Age utilisent surtout des plantes :

vrai faux

Quelle est, en moyenne, l'espérance de vie au Moyen Age ?

Environ 30 ans.

Comment sont enterrés les morts au début du Moyen Age ?

Ils sont déposés directement en terre ou dans des cercueils en bois ou en plâtre et enterrés habillés avec de nombreuses offrandes.

Finalement, aurais-tu voulu vivre au Moyen Age ? Pourquoi ?

Boucle de ceinture de type wisigothique (alliage cuivreux doré, malachite et verroteries blanches et rouges) du VIe siècle, découverte lors de la fouille de la nécropole mérovingienne de Vicq.

Vaisselle de table du XIIIe au XVe siècle, découverte à Poissy et au château de la Madeleine à Chevreuse.



Vitrail du XIIIe siècle, église Sainte-Anne de Gassicourt à Mantes-la-Jolie. La ville, symbolisée par sa muraille, marque son identité vis-à-vis de la campagne environnante.